RALLYE MATHÉMATIQUE DE LA SARTHE

1° étape de qualification

PROBLÈMES- résultats

6°

-I-

Le chiffre des unités du produit est: ...*4*..

-II-

Mon année de naissance est:

.....*1947.* .....

-III-

Le périmètre du troisième est ..*8* .. fois plus celui du premier carré.

L'aire du troisième carré est *64.* fois celle du premier carré.

-IV-

Le nombre cherché est: .....*333*... .....

-V-

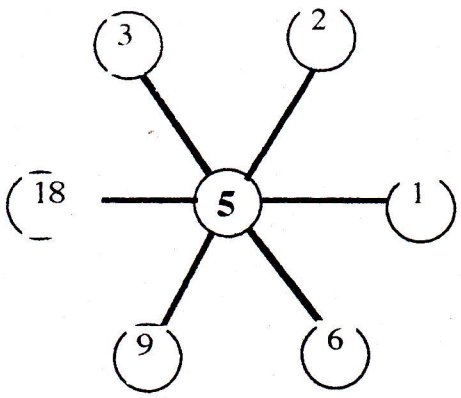

-VI-

L'octogone régulier a...*20.* ... diagonales

-VII-

Le nombre de tricycles est: .....*7*.. ....

-VIII-

La longueur du chemin est: ...*665 cm*.. ...

-IX-

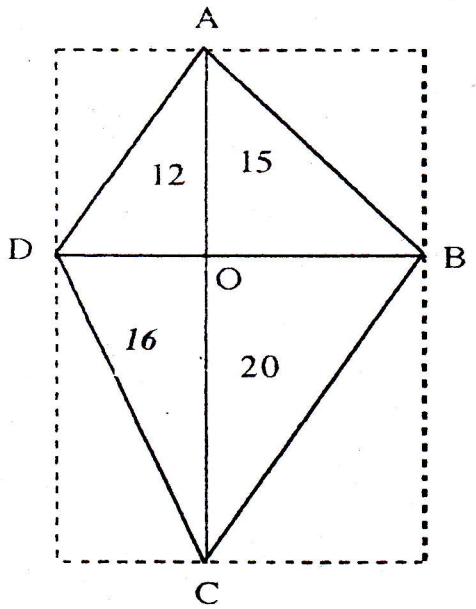

-X-

Ils se sont revus le *25 novembre 1998*

RALLYE MATHÉMATIQUE DE LA SARTHE

1° étape de qualification

GÉOMÉTRIE- réponses

6°
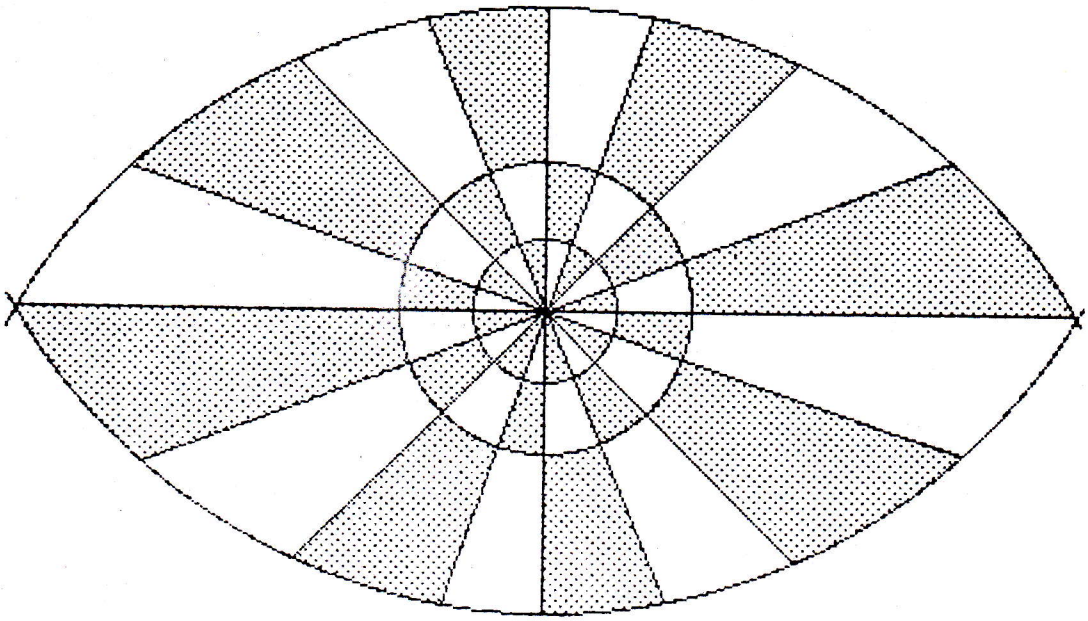
-I- Construction